Representaties interpreteren

Oefening 1 (Huishoudens naar aantal kinderen)**.**

De onderstaande frequentietabel toont het aantal *private huishoudens* in het Vlaams Gewest in 2024, opgesplitst naar het aantal kinderen en per provincie. Met een privaat huishouden wordt een groep mensen bedoeld die samen onder één dak wonen en samenwonen als gezin of alleenstaande — dus geen collectieve woonvormen zoals woonzorgcentra of studentenkoten.

Aantal kinderen	Antwerpen	Vlaams-Brabant	West-Vlaanderen	Oost-Vlaanderen	Limburg	Vlaams Gewest
0	534 217	297 327	371 525	436 210	240 112	1 879 391
1	125 972	83 114	81 292	110 352	66 924	467 654
2	114 610	79 709	72 939	96 609	56 850	420 717
3+	58 157	36 552	27 446	40 303	21 154	183 612
Totaal	832 956	496 702	553 202	683 474	385 040	2 951 374

Bron: Statistiek Vlaanderen: Huishoudens
https://app.powerbi.com/view?r=eyJrIjoiZjYxYTcwNDMtNjVlNC00NzM5LWJkZWEtNGJmYTM3OWRmMmMwIiwidCI6IjB

Zijn onderstaande stellingen waar of onwaar?

1. In Limburg zijn er meer huishoudens met 2 kinderen dan met 1 kind.

Waar	Onwaar

2. In Antwerpen zijn er minder huishoudens met kinderen dan zonder kinderen.

Waar	Onwaar

3. Er is een provincie waar er meer huishoudens zijn met 3 of meer kinderen dan met 2 kinderen.

Waar	Onwaar

4. In Limburg is het aandeel huishoudens met 1 kind ten opzichte van het totaal aantal huishoudens kleiner dan in Oost-Vlaanderen.

Waar	Onwaar

5. Meer dan een kwart van alle Vlaamse huishoudens zonder kinderen woont in Antwerpen.

Waar	Onwaar

Oefening 2 (Mediagebruik per leeftijd)**.**

Onderstaande gegevens zijn afkomstig uit een onderzoek in het Vlaams Gewest uit najaar 2024 en tonen het percentage mensen per leeftijdsgroep dat minstens één keer per week gebruik maakt van verschillende media.

CC BY-NC-SA 4.0

Representaties interpreteren

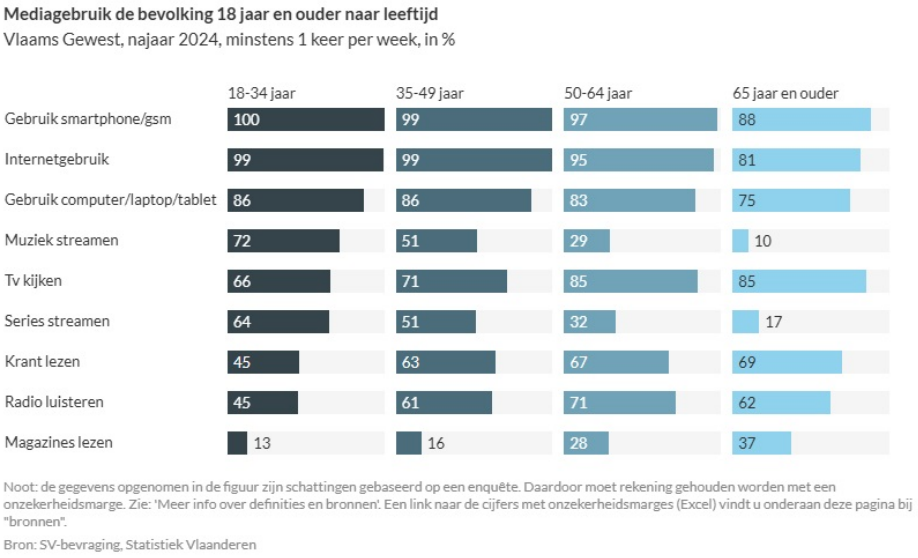

Bron: Statistiek Vlaanderen: Mediagebruik
https://www.vlaanderen.be/statistiek-vlaanderen/media-en-mediagebruik/mediagebruik

1. Welke leeftijdsgroep heeft het laagste percentage internetgebruikers?

18–34 jaar	35–49 jaar	50–64 jaar	65 jaar en ouder

2. Voor welke leeftijdsgroep(en) geldt de eigenschap *"Meer dan 80% van de mensen kijkt minstens één keer per week tv."*?

Meerkeuze (selecteer alle correcte antwoorden):

(a) 18–34 jaar

(b) 35–49 jaar

(c) 50–64 jaar

(d) 65 jaar en ouder

3. Duid de correcte stelling(en) aan.

Meerkeuze (selecteer alle correcte antwoorden):

(a) A. Een groter deel van de 65-plussers lezen de krant dan van de 18–34-jarigen.

(b) B. De jongste leeftijdsgroep kijkt vaker tv dan de oudste leeftijdsgroep.

(c) C. Het gebruik van computer/laptop/tablet is het hoogst bij 18–49-jarigen.

(d) D. Muziek streamen is populairder dan series streamen bij alle leeftijdsgroepen.

(e) E. Een groter deel van de 65-plussers luisteren naar de radio dan van de andere leeftijdsgroepen.

4. Voor welke mediavorm is het verschil in gebruik tussen de jongste en oudste leeftijdsgroep het grootst?

Internetgebruik	Muziek streamen	Tv kijken	Krant lezen

CC BY-NC-SA 4.0
KU Leuven (2026/09/03H.46)

Oefening 3 (Aantal sportclubs in Vlaanderen).

Onderstaand staafdiagram toont het aantal sportclubs in Vlaanderen voor vier sporten (zwemmen, basketbal, padel en atletiek) van 2020 tot en met 2023.

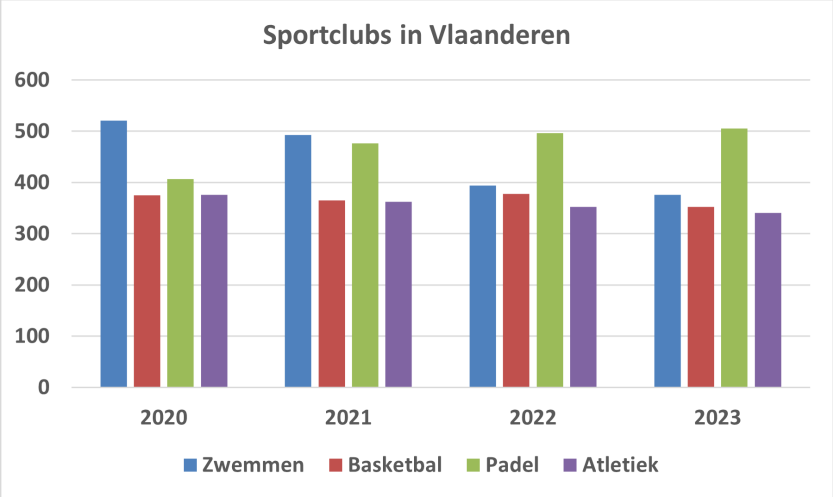

Bron: Sport Vlaanderen
https://www.sport.vlaanderen/kennisplatform/themas/thema-sportclubs/db-sportclubs/

1. Welke sport kende de sterkste groei in aantal clubs tussen 2020 en 2023?

Zwemmen	Basketbal	Padel	Atletiek

2. Welke sporten kenden een daling in aantal clubs tussen 2022 en 2023?

Meerkeuze (selecteer alle correcte antwoorden):

(a) Zwemmen

(b) Basketbal

(c) Padel

(d) Atletiek

3. Is deze stelling waar of onwaar? "Het aantal zwemclubs ligt elk jaar hoger dan het aantal padelclubs."

Waar	Onwaar

Oefening 4 (Jaarlijkse bevolkingsgroei in de Belgische gewesten).

Onderstaand lijndiagram toont de jaarlijkse bevolkingsgroei (in procent) in het Vlaams Gewest, het Brussels Hoofdstedelijk Gewest en het Waals Gewest van 1989 tot en 2024.

CC BY-NC-SA 4.0

Representaties interpreteren

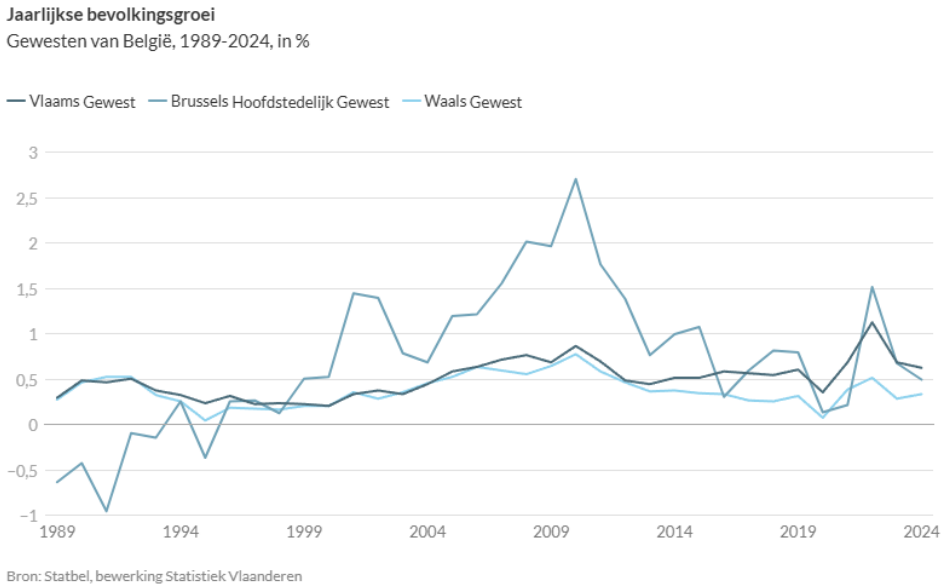

Bron: Statistiek Vlaanderen: Bevolkingsgroei
https://www.vlaanderen.be/statistiek-vlaanderen/bevolking/bevolking-omvang-en-groei

1. In welk jaar kende het Brussels Hoofdstedelijk Gewest de sterkste bevolkingsgroei?

2000	2005	2010	2022

2. Welke gewest kende in het begin van de jaren 1990 een bevolkingskrimp?

Vlaams Gewest	Brussels Hoofdstedelijk Gewest	Waals Gewest

3. Duid de correcte stelling(en) aan.

Meerkeuze (selecteer alle correcte antwoorden):

(a) A. De bevolkingsgroei in het Waals Gewest ligt sinds 2014 lager dan in het Vlaams Gewest.

(b) B. De bevolkingsgroei in het Vlaams Gewest is sinds 1989 elk jaar gestegen.

(c) C. In 2024 is de bevolkingsgroei in het Vlaams Gewest hoger dan 0.5%.

(d) D. De bevolkingsgroei in het Waals Gewest was in 2010 hoger dan in het Brussels Hoofdstedelijk Gewest.

CC BY-NC-SA 4.0
KU Leuven (2026/09/03H.46)